WWW.OLEVELAPI.COM

සියලු ම හිමිකම් ඇවිරිණි / முழுப் பதிப்புரிமையுடையது / All Rights Reserved]

ශ්‍රී ලංකා විභාග දෙපාර්තමේන්තුව
இலங்கைப் பரீட்சைத் திணைக்களம்
Department of Examinations, Sri Lanka

34 S I

අධ්‍යයන පොදු සහතික පත්‍ර (සාමාන්‍ය පෙළ) විභාගය, 2023(2024)
கல்விப் பொதுத் தராதரப் பத்திர (சாதாரண தர)ப் பரீட்சை, 2023(2024)
General Certificate of Education (Ord. Level) Examination, 2023(2024)

විද්‍යාව I
விஞ்ஞானம் I
Science I

පැය එකයි
ஒரு மணித்தியாலம்
One hour

උපදෙස්:

* **සියලු ම** ප්‍රශ්නවලට පිළිතුරු සපයන්න.
* අංක **1** සිට **40** තෙක් ප්‍රශ්නවල, දී ඇති (1), (2), (3), (4) යන පිළිතුරුවලින් **නිවැරදි හෝ වඩාත් ගැළපෙන හෝ** පිළිතුර තෝරා ගන්න.
* **ඔබට සැපයෙන පිළිතුරු පත්‍රයේ එක් එක් ප්‍රශ්නය සඳහා දී ඇති කව අතුරෙන් ඔබ තෝරාගත් පිළිතුරෙහි අංකයට සැසඳෙන කවය තුළ (X) ලකුණ යොදන්න.**
* එම පිළිතුරු පත්‍රයේ පිටුපස දී ඇති අනෙක් උපදෙස් ද සැලකිල්ලෙන් කියවා, ඒවා ද පිළිපදින්න.

1. බහිස්ස්‍රාවී ද්‍රව්‍යයක් වන යූරියා නිපදවෙන්නේ,
(1) වකුගඩුවල ය. (2) අක්මාවෙහි ය. (3) මූත්‍රාශයෙහි ය. (4) වෘක්කාණුවල ය.

2. ක්ෂමතාවේ ඒකකය කුමක් ද?
(1) W s (2) $W\,s^{-1}$ (3) J s (4) $J\,s^{-1}$

3. අයිසොප්‍රොපිල් ඇල්කොහොල් අණුවක සූත්‍රය $(CH_3)_2CHOH$ වේ. මෙම අණුවක ඇති පරමාණු ගණන කොපමණ ද?
(1) 8 (2) 10 (3) 11 (4) 12

4. ශාක පත්‍ර තුළ නිපදවන ආහාර ශාක දේහය පුරා පරිවහනය කරන පටකය කුමක් ද?
(1) ශෛලම (2) ප්ලෝයම (3) කැම්බියම (4) දෘඪස්තර

5. වස්තු දෙකක් එකිනෙක පිරි මැදීමෙන් එක් වස්තුවකට ධන ආරෝපණයක් ලැබීමේ දී අනෙකට සංක්‍රමණය වනුයේ
(1) ඉලෙක්ට්‍රෝනයි. (2) ප්‍රෝටෝනයි.
(3) නියුට්‍රෝනයි. (4) ඉලෙක්ට්‍රෝන හා ප්‍රෝටෝනයි.

6. පිළිවෙළින් ආම්ලික ඔක්සයිඩයක්, උභයගුණී ඔක්සයිඩයක් සහ භාස්මික ඔක්සයිඩයක් ඇතුළත් වන්නේ මින් කුමක ද?
(1) SO_3, Al_2O_3, SiO_2 (2) SO_3, Al_2O_3, MgO
(3) CO_2, SiO_2, MgO (4) SiO_2, CO_2, Al_2O_3

7. ශාක සෛලයක ඇති අජීවී ව්‍යුහයක් ලෙස .... හැඳින්විය හැකි ය.
(1) සෛල බිත්තිය (2) ප්ලාස්ම පටලය (3) රයිබොසෝම (4) ගොල්ගි දේහ

8. රූපසටහනේ දක්වා ඇති නාරටි වින්‍යාසය සහිත පත්‍ර දරන ශාකයක තවත් රූපීය ලක්ෂණයක් වන්නේ,
(1) මුදුන් මුල් පද්ධතියක් පිහිටීමයි.
(2) අතු බෙදුණු කඳක් තිබීමයි.
(3) බීජය තුළ එක් බීජපත්‍රයක් තිබීමයි.
(4) චතුර් අංක හෝ පංචාංක පුෂ්ප දැරීමයි.



9. විද්‍යුත්-චුම්බක තරංග හා සම්බන්ධ පහත ප්‍රකාශවලින් **අසත්‍ය** ප්‍රකාශය කුමක් ද?
(1) ශක්තිය සම්ප්‍රේෂණය කරයි.
(2) රික්තයේ දී $3\times10^8\,m\,s^{-1}$ වේගයකින් ගමන් කරයි.
(3) පදාර්ථමය මාධ්‍යයක දී සංඛ්‍යාතය රික්තයේ දීට වඩා අඩු වේ.
(4) පදාර්ථමය මාධ්‍යයක දී වේගය රික්තයේ දීට වඩා අඩු වේ.

10. අයනික සංයෝග පිළිබඳ ව සත්‍ය වනුයේ පහත කුමන ප්‍රකාශය ද?
(1) ඝන අවස්ථාවේ දී විද්‍යුතය සන්නයනය කරයි. (2) සියල්ල ම ඉතා හොඳින් ජලයේ දිය වේ.
(3) ද්‍රවාංක හා තාපාංක ඉහළ අගයන් ගනී. (4) විලීන අවස්ථාවේ දී විද්‍යුතය සන්නයනය නො කරයි.

[දෙවැනි පිටුව බලන්න.

අ.පො.ස සාමාන්‍ය පෙළ සියලුම විෂය ධාරාවන්ට අදාළ ප්‍රශ්න පත්‍ර/පිළිතුරු පත්‍ර/සටහන් හා තවත් බොහෝ දෑ ලබාගැනීමට පිවිසෙන්න www.olevelapi.com වෙත ....

11. ශ්වසන පද්ධතිය ආශ්‍රිත රෝගයකින් පෙළෙන පුද්ගලයෙකු තුළ පහත රෝග ලක්ෂණ දක්නට ලැබේ.
- කැස්ස සමඟ රුධිරය පිටවීම
- ශරීරයේ බර අඩු වීම
- අධික වෙහෙස

මෙම පුද්ගලයාට වැළඳී තිබීමට හැක්කේ
(1) නිව්මෝනියාවයි. (2) බ්‍රොන්කයිටිස් රෝගයයි. (3) ක්ෂය රෝගයයි. (4) සිලිකෝසිස් රෝගයයි.

- අංක **12** සහ **13** ප්‍රශ්න දී ඇති රූපසටහන මත පදනම් වේ.

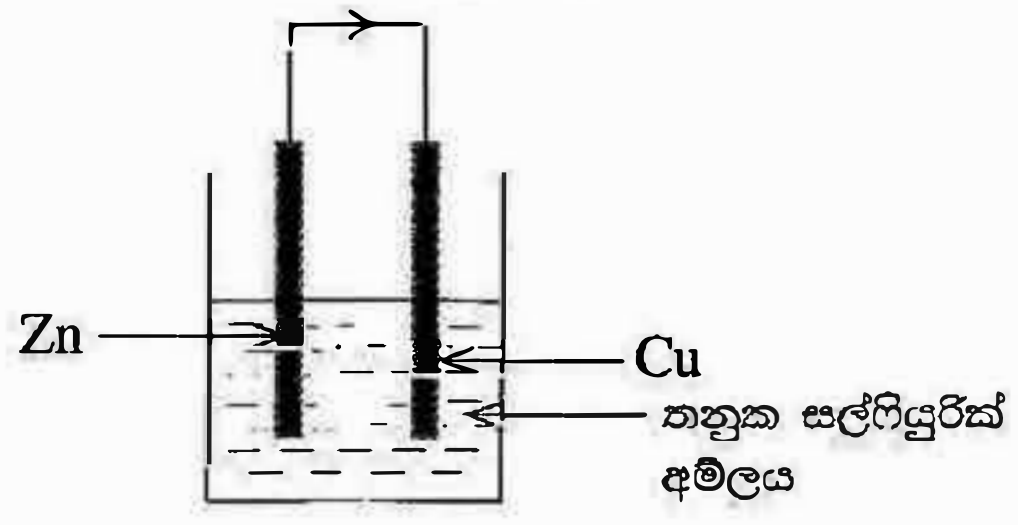

12. බාහිර පරිපථයේ දැක්වෙන ඊතලයෙන් නිරූපණය කරන දිශාවට ගමන් කරනුයේ,
(1) සම්මත ධාරාවයි. (2) ඉලෙක්ට්‍රෝනයි.
(3) Zn^{2+} අයනයි. (4) Cu^{2+} අයනයි.

13. ඉහත කෝෂයෙහි සිදු වන කැතෝඩ ප්‍රතික්‍රියාව කුමක් ද?
(1) $Zn^{2+}(aq) + 2e \longrightarrow Zn(s)$ (2) $Cu^{2+}(aq) + 2e \longrightarrow Cu(s)$
(3) $2H^{+}(aq) + 2e \longrightarrow H_2(g)$ (4) $4OH^{-}(aq) + 4e \longrightarrow O_2(g) + 2H_2O(l)$

14. ආලෝක වර්තනය පිළිබඳ පහත ප්‍රකාශ සලකා බලන්න.
A - ආලෝකය වර්තනය වන්නේ විරලතර මාධ්‍යයක සිට ඝනතර මාධ්‍යයකට ගමන් කරන්නා විට පමණි.
B - වර්තනයට හේතු වන්නේ මාධ්‍ය දෙකෙහි දී ආලෝකයේ වේගය එකිනෙකින් වෙනස් වීමයි.
C - වර්තනයේ දී ආලෝකයේ සංඛ්‍යාතය වෙනස් වේ.

මේවායින් සත්‍ය වනුයේ,
(1) *A* පමණි. (2) *B* පමණි. (3) *A* හා *C* පමණි. (4) *B* හා *C* පමණි.

15. පොළොව මත දී ගුරුත්වජ ත්වරණය $10\ m\ s^{-2}$ වේ. සඳ මත දී එම අගය පොළොවේ දී මෙන් $\frac{1}{6}$ කි. පොළොව මත දී බර $60\ N$ වන වස්තුවක සඳ මත දී බර කොපමණ ද?
(1) 10 N (2) 60 N (3) 100 N (4) 360 N

16. පහත දැක්වෙන ලක්ෂණ අතුරෙන් පෘෂ්ඨවංශී සත්ත්ව කාණ්ඩයට අයත් ආවේස් හා මැමේලියාවන්ට පමණක් පොදු ලක්ෂණ මොනවා ද?
A - අචලතාපීත්වය *B* - රෝමවලින් ආවරණය වූ සම
C - අස්ථිමය අභ්‍යන්තර සැකිල්ල *D* - කුටීර හතරක් සහිත හෘදය
(1) *A* හා *B* (2) *A* හා *D* (3) *B* හා *C* (4) *C* හා *D*

17. ලෝහ පිළිබඳ ව **අසත්‍ය** ප්‍රකාශය මින් කුමක් ද?
(1) මූලද්‍රව්‍යවලින් බහුතරය ලෝහ වේ.
(2) සියලු ම ලෝහ විද්‍යුතය සන්නයනය කරයි.
(3) ලෝහ පරමාණු ඉලෙක්ට්‍රෝන පිටකරමින් ධන අයන නිපදවයි.
(4) සියලු ම ලෝහ අම්ල සමග ප්‍රතික්‍රියා කර හයිඩ්‍රජන් පිට කරයි.

18. එක්තරා ද්‍රාවණයකට මෙතිල් ඔරේන්ජ් බිංදු කිහිපයක් එක් කළ විට එම ද්‍රාවණය රතු පැහැයට හැරිණි. එම ද්‍රාවණයේ pH අගය වීමට වඩාත් ඉඩ ඇත්තේ මින් කුමක් ද?
(1) 2 (2) 7 (3) 12 (4) 14

19. නැවක සිට මුහුදු පතුලට යවන ලද අතිධ්වනි තරංගයක් පරාවර්තනය වී නැව වෙත පැමිණීමට තත්පර හතරක් ගත වේ. මුහුදු පතුලට ඇති ගැඹුර $2880\ m$ නම් මුහුදු ජලය තුළ අතිධ්වනි තරංගයේ වේගය කොපමණ ද?
(1) $720\ m\ s^{-1}$ (2) $1440\ m\ s^{-1}$ (3) $2880\ m\ s^{-1}$ (4) $3700\ m\ s^{-1}$

20. වායුවක ලක්ෂණ කිහිපයක් පහත දැක්වේ.
- පහසුවෙන් දහනය කළ හැකි ය.
- සාමාන්‍ය වාතයට වඩා ඝනත්වයෙන් අඩු ය.
- ජලයේ මඳ වශයෙන් ද්‍රාව්‍ය වේ.

මෙම වායුව වනුයේ
(1) හයිඩ්‍රජන් ය. (2) නයිට්‍රජන් ය. (3) ඔක්සිජන් ය. (4) කාබන් ඩයොක්සයිඩ් ය.

21. හෘද ස්පන්දන වේගය පාලනය කරන මධ්‍ය ස්නායු පද්ධතියට අයත් කොටස කුමක් ද?
(1) මස්තිෂ්කය (2) අනුමස්තිෂ්කය (3) සුෂුම්නාව (4) සුෂුම්නා ශීර්ෂකය

[තුන්වැනි පිටුව බලන්න.

අ.පො.ස සාමාන්‍ය පෙළ සියලුම විෂය ධාරාවන්ට අදාල ප්‍රශ්න පත්‍ර/පිළිතුරු පත්‍ර/සටහන් හා තවත් බොහෝ දෑ ලබාගැනීමට පිවිසෙන්න www.olevelapi.com වෙත ...

22. සන්නායකයක ප්‍රතිරෝධය පිළිබඳ පහත ප්‍රකාශ සලකා බලන්න.

A - සන්නායකයේ දෙකෙළවර විභව අන්තරය මත රඳා පවතී.
B - සන්නායකයේ දිගට අනුලෝම ව සමානුපාතික වේ.
C - සන්නායකය තුළින් ගලා යන ධාරාව මත රඳා පවතී.

ඉහත ප්‍රකාශවලින් සත්‍ය වනුයේ

(1) *A* පමණි. (2) *B* පමණි. (3) *A* හා *B* පමණි. (4) *A* හා *C* පමණි.

23. කැල්සියම් කාබනේට් 10 g ක ඇති කැල්සියම් කාබනේට් මවුල ප්‍රමාණය කොපමණ ද? ($CaCO_3 = 100$)

(1) 0.01 (2) 0.1 (3) 1 (4) 10

24. කාබොහයිඩ්‍රේට පිළිබඳ ව නිවැරදි ප්‍රකාශය තෝරන්න.

(1) සියලු ම කාබොහයිඩ්‍රේට ජල ද්‍රාව්‍ය වේ.
(2) සියලු ම කාබොහයිඩ්‍රේට ස්ඵටිකරූපී වේ.
(3) කාබොහයිඩ්‍රේටවල C හා H අතර අනුපාතය 1 : 2 වේ.
(4) ග්ලූකෝස් යනු කාබොහයිඩ්‍රේටවල තැනුම් ඒකකයයි.

25. දකුණු පසින් දැක්වෙන්නේ *A* හා *B* ලෝහ දෙකකින් සෑදුම් ලත් ද්විලෝහ පටියකි. මෙහි වැඩියෙන් ප්‍රසාරණය වන ලෝහය *A* වන අතර අඩුවෙන් ප්‍රසාරණය වන ලෝහය *B* වේ. ද්විලෝහ පටියේ උෂ්ණත්වය වැඩි කළ විට එහි හැඩය වෙනස් වන්නේ පහත කුමන ආකාරයට ද?

(1)

(2)

(3)

(4)

26. ඝන ද්‍රව්‍යයකින් සාදන ලද වස්තුවක් ද්‍රවයක ඉපිලීම සඳහා

(1) ඝන ද්‍රව්‍යයේ ඝනත්වය ද්‍රවයේ ඝනත්වයට වඩා අඩු විය යුතු ය.
(2) ඝන වස්තුවේ ස්කන්ධය විස්ථාපිත ද්‍රව ස්කන්ධයට සමාන විය යුතු ය.
(3) ඝන වස්තුවේ බර එමගින් විස්ථාපිත ද්‍රව පරිමාවේ බරට සමාන විය යුතු ය.
(4) ඝන වස්තුවේ බර එය මත ඇති වන උඩුකුරු තෙරපුමට වඩා අඩු විය යුතු ය.

27. Tt ප්‍රවේණිදර්ශය සහිත ජීවීන් දෙදෙනෙකු අතර අන්තරාභිජනනයෙන් බිහි වන ජනිතයන්ගේ එකිනෙකට වෙනස් ප්‍රවේණිදර්ශ සංඛ්‍යාව හා රූපානුදර්ශ සංඛ්‍යාව පිළිවෙළින්,

(1) 2 හා 1කි. (2) 3 හා 2කි. (3) 4 හා 2කි. (4) 4 හා 3කි.

28. සර්වසම *A*, *B* හා *C* බල්බ තුනක් සහ *R* ප්‍රතිරෝධකයක් පරිපථයකට සම්බන්ධ කර ඇති ආකාරය රූපයේ දැක්වේ. *A*, *B* හා *C* බල්බවල දීප්තිය පිළිබඳ සම්බන්ධතාව නිවැරදි ව දැක්වෙනුයේ කුමන ප්‍රකාශනයේ ද?

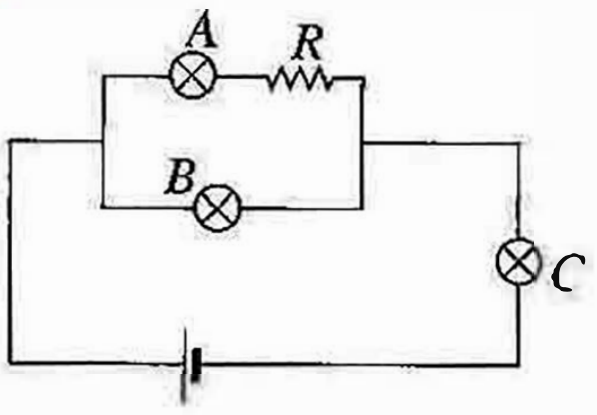

(1) $A < B < C$ (2) $A = B = C$
(3) $A = B < C$ (4) $A < C < B$

29. පහත දැක්වෙන්නේ හීමටයිට් හා කාබන් මොනොක්සයිඩ් අතර ප්‍රතික්‍රියාවයි.

$$Fe_2O_3 + 3CO \longrightarrow 2Fe + 3CO_2$$

Fe_2O_3 මවුල එකක් භාවිතයෙන් නිපදවිය හැකි Fe ස්කන්ධය කොපමණ ද? (Fe = 56)

(1) 28 g (2) 56 g (3) 112 g (4) 168 g

30. වයිරස් ආසාදනයකට ලක් වූ පුද්ගලයෙකුගේ රුධිරයේ අඩංගු පට්ටිකා ප්‍රමාණය සාමාන්‍ය අගයට වඩා අඩු වී ඇත. එහි ප්‍රතිඵලයක් ලෙස ඔහුගේ සිරුරේ

(1) ඔක්සිජන් පරිවහනය වේගවත් වේ. (2) ප්‍රතිදේහ නිපදවීම අඩාල වේ.
(3) රුධිරය කැටි ගැසීම නිසි පරිදි සිදු නො වේ. (4) හෝමෝන පරිවහනය සෙමින් සිදු වේ.

31. ඍජුකෝණාස්‍ර හැඩැති තහඩු තුනක් මත ඒකතල බල යොදා ඇති ආකාර *A*, *B* හා *C* රූපවල දක්වා ඇත.

ඉහත තහඩු අතුරෙන් සමතුලිතතාවේ පවතිනුයේ,

(1) *A* පමණි.
(2) *B* පමණි.
(3) *A* හා *C* පමණි.
(4) *A*, *B* හා *C* යන සියල්ල ම ය.

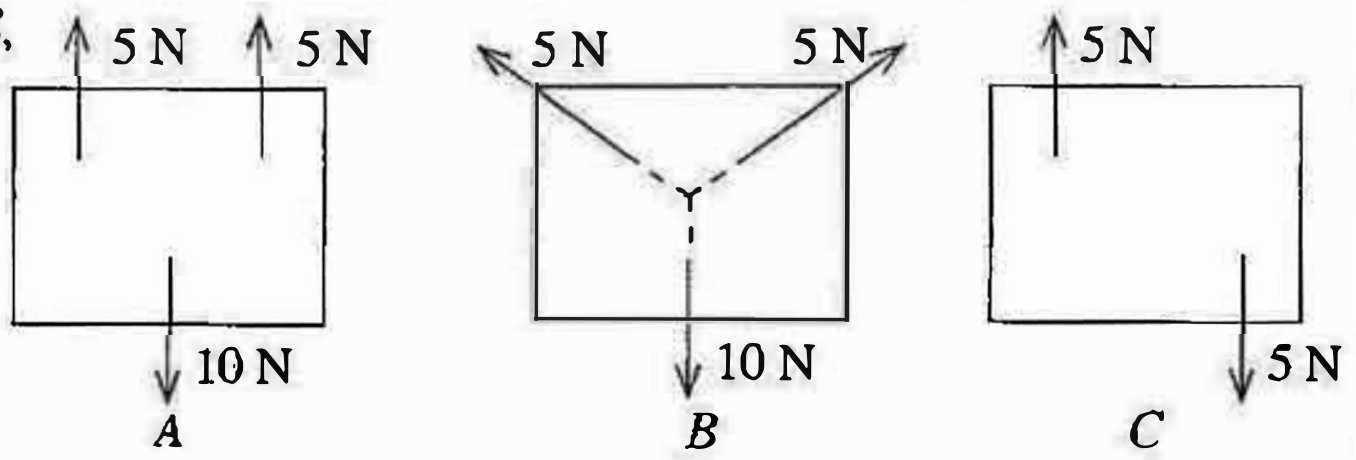

[හතරවැනි පිටුව බලන්න.

WWW.OLEVELAPI.COM
අ.පො.ස සාමාන්‍ය පෙළ සියලුම විෂය ධාරාවන්ට අදාල ප්‍රශ්න පත්‍ර/පිළිතුරු පත්‍ර/සටහන් හා තවත් බොහෝ දෑ ලබාගැනීමට පිවිසෙන්න www.olevelapi.com වෙත ...

32. *A* - උත්ප්‍රේරක මගින් රසායනික ප්‍රතික්‍රියාවක ශීඝ්‍රතාව වැඩි වේ.
B - ප්‍රතික්‍රියාව අවසානයේ උත්ප්‍රේරකයේ රසායනික සංයුතිය වෙනස් වේ.

ඉහත,

(1) *A* සහ *B* ප්‍රකාශ දෙක ම සත්‍ය වේ.
(2) *A* ප්‍රකාශය සත්‍ය වන අතර *B* ප්‍රකාශය අසත්‍ය වේ.
(3) *A* සහ *B* ප්‍රකාශ දෙක ම අසත්‍ය වේ.
(4) *A* ප්‍රකාශය අසත්‍ය වන අතර *B* ප්‍රකාශය සත්‍ය වේ.

33. සර්වසම නළ හතරකට කාබන් ඩයොක්සයිඩ් සමාන සාන්ද්‍රණයක් සහිත ජලය සමාන පරිමා එකතු කර රූපවල දැක්වෙන (1), (2), (3) සහ (4) ඇටවුම් සාදන ලදි. මෙම ඇටවුම් හතර ම සර්වසම ආලෝක තත්ත්ව යටතේ පැය තුනක් තැබීමෙන් පසු ව **අඩු ම** කාබන් ඩයොක්සයිඩ් සාන්ද්‍රණය ඇත්තේ කුමන ඇටවුමේ ද?

(1) (2) (3) (4)

34. බහුඅවයවක සම්බන්ධයෙන් දී ඇති පහත ප්‍රකාශ සලකන්න.
A - ඉතා ඉහළ සාපේක්ෂ අණුක ස්කන්ධයක් ඇත.
B - තැනීමට දායක වන කුඩා අණු පුනරාවර්තන ඒකක ලෙස හැඳින්වේ.
C - සම්භවය මත පදනම් ව කෘත්‍රිම හා ස්වාභාවික ලෙස වර්ග කළ හැකි ය.

මේවායින් සත්‍ය ප්‍රකාශය/ප්‍රකාශ වනුයේ

(1) *A* පමණි. (2) *B* පමණි. (3) *A* හා *C* පමණි. (4) *B* හා *C* පමණි.

35. රූපයේ දක්වා ඇත්තේ *A* හා *B* පරිවෘත තඹ කම්බි දඟර දෙකක් මෘදු යකඩ මධ්‍යයක් වටා ඔතා ඇති ආකාරයයි. එම සැකැස්ම පිළිබඳ ව පහත කුමන ප්‍රකාශය සත්‍ය වේද?

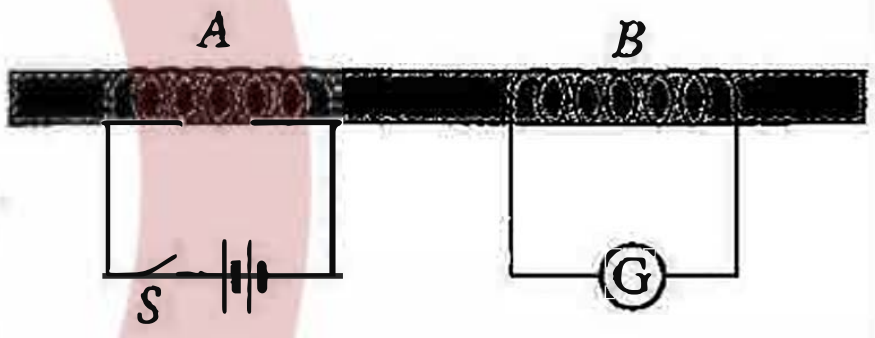

(1) *S* ස්විච්චය වසන මොහොතේ *A* හි ධාරාවක් ගලා යන අතර *B* හි ධාරාවක් ගලා නො යයි.
(2) *S* ස්විච්චය දිගට ම වසා තැබීමේ දී *A* හි ධාරාවක් ගලා යන අතර *B* හි ද ධාරාවක් ගලා යයි.
(3) *S* ස්විච්චය වසන මොහොතේ දී පමණක් *B* හි ධාරාවක් ගලා යයි.
(4) *S* ස්විච්චය විවෘත කරන මොහොතේ දී සහ වසන මොහොතේ දී පමණක් *B* හි ධාරාවක් ගලා යයි.

36. ප්‍රවේග-කාල ප්‍රස්තාරය පිළිබඳ දක්වා ඇති පහත ප්‍රකාශවලින් **අසත්‍ය** ප්‍රකාශය කුමක් ද?

(1) ප්‍රස්තාරයෙන් ආවරණය වන වර්ගඵලයෙන් වස්තුවේ විස්ථාපනය ලැබේ.
(2) නිශ්චලතාවෙන් චලිතය අරඹන වස්තු සඳහා ප්‍රස්තාරය ඇරඹෙනුයේ මූල ලක්ෂ්‍යයෙනි.
(3) කාලයත් සමඟ ප්‍රවේගය වෙනස් වන චලිතයක දී ප්‍රස්තාරයේ අනුක්‍රමණය ශුන්‍ය වේ.
(4) ප්‍රස්තාරයේ අනුක්‍රමණයෙන් ත්වරණය/මන්දනය ලැබේ.

37. සාගර පරිසර පද්ධතිවල ඇල්ගී ගහනය අසාමාන්‍ය ලෙස වර්ධනය වීමට දායක වන දූෂකය කුමක් ද?

(1) බැර ලෝහ (2) සල්ෆේට් (3) ප්ලාස්ටික් අපද්‍රව්‍ය (4) පොස්පේට්

WWW.OLEVELAPI.COM

38. වෙරළබඩ ප්‍රදේශවල වාසය කරන වැඩිහිටියන් කිහිප දෙනෙකු සමඟ කළ සාකච්ඡාවක දී ඔවුන් ප්‍රකාශ කළේ වර්තමානයේ වසරක දී කුණාටු ඇති වන වාර ගණනෙහි සහ ඒවායේ ප්‍රබලතාවේ වැඩිවීමක් දකින අතර, වෙරළ තීරය ඛාදනය වීම විශාල වශයෙන් සිදු වන බවයි. මෙම තත්ත්වයට ඉහළ ම දායකත්වයක් දක්වන්නේ කුමන පාරිසරික සංසිද්ධිය ද?

(1) ගෝලීය උණුසුම ඉහළ යාම
(2) හරිතාගාර ආචරණය
(3) ඕසෝන් වියන ක්ෂය වීම
(4) සුපෝෂණය

39. සෑම විට ම උඩුකුරු ආකාරයට පමණක් දැක්වෙන පාරිසරික පිරමිඩ වන්නේ,

(1) ජෛව ස්කන්ධ පිරමිඩයි.
(2) සංඛ්‍යා පිරමිඩයි.
(3) ශක්ති පිරමිඩයි.
(4) ශක්ති පිරමිඩ හා ජෛව ස්කන්ධ පිරමිඩයි.

40. ප්‍රතිචක්‍රීකරණ මූලධර්මය සඳහා නිදසුනක් වනුයේ පහත කුමන ක්‍රියාව ද?

(1) භාවිතයෙන් ඉවත් කළ ඩෙනිම් කලිසම්වලින් පාපිසි සකස් කිරීම
(2) වැඩිමහල් සහෝදරයා භාවිත කළ ඇඳුම් බාල සහෝදරයා ඇඳීම
(3) එදිනෙදා මිල දී ගන්නා ආහාර ද්‍රව්‍ය රැගෙන ඒමට එක ම රෙදි මල්ලක් භාවිත කිරීම
(4) මැහුම් ගැලවුණු ඇඳුමක් නැවත මසා ඇඳීම

***

අ.පො.ස සාමාන්‍ය පෙළ සියලුම විෂය ධාරාවන්ට අදාල ප්‍රශ්න පත්‍ර/පිළිතුරු පත්‍ර/සටහන් හා තවත් බොහෝ දෑ ලබාගැනීමට පිවිසෙන්න www.olevelapi.com වෙත ...